Тест изходно ниво по Компютърно моделиране за 3 клас

Име:..... Клас:.....

1. При кои от изброените дигитални устройства екранът служи за въвеждане на информация и за обратна връзка към потребителя:
   - Компютър
   - Таблет
   - Лаптоп
   - Смартфон

2. Огради номерата на картинки, в които има неправилно разположение на ръцете спрямо клавиатурата:

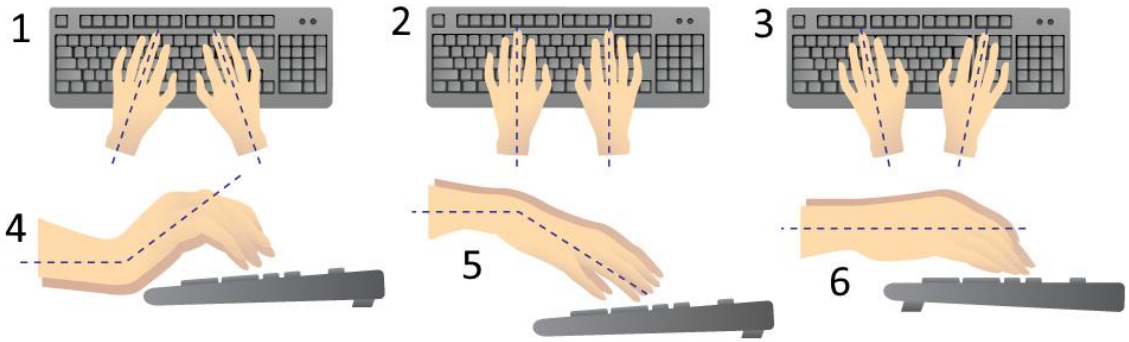

3. Кое правило е нарушено в паролата **Mark0+ 5**:
   - Да съдържа поне една главна буква
   - Броят на знаците да не е по-малък от 4
   - Да не съдържа интервали
   - Да не съдържа букви на кирилица

4. Отбележете блок команда, която е пропусната.

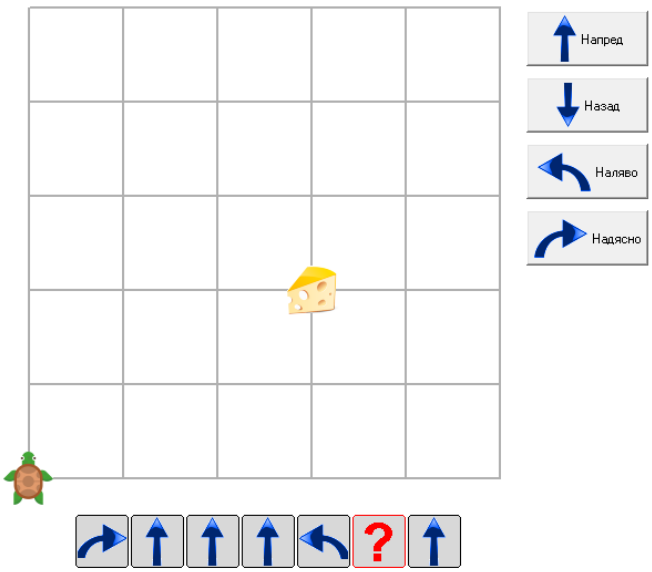
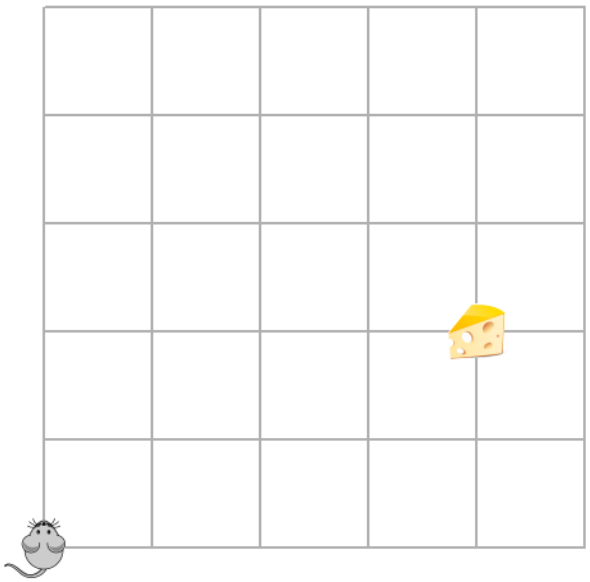
5. Опишете с блок команди пътят на мишката до сиренето.